Nom et prénom : ..... Date : .....

NOMBRES ET CALCULS

77 Les nombres de 50 à 69

Parcours A
Fichier p. 86

A1 **Compte** le nombre de magnets de Lola.



Il y a ..... dizaines de magnets et ..... magnets seuls.

Entoure le nombre de magnets.

trente-six soixante-trois quarante-trois

A2 123 **Écris** le nombre en chiffres, puis abc en lettres.



.....-.....



.....-.....

Nom et prénom : ..... Date : .....

NOMBRES ET CALCULS

77 Les nombres de 50 à 69

Parcours B
Fichier p. 86

B1 **Entoure** le bon nombre.

15	51	64	46	26	62
cinquante et un		soixante-quatre		soixante-deux	

B2 123 **Écris** les nombres en chiffres.

soixante-trois : ..... cinquante-sept : .....

B3 abc **Écris** les nombres en lettres.

59 : ..... 65 : .....