126 Les moitiés des longueurs

Compétences : Mesurer et identifier les moitiés des longueurs.
Calcul mental : Calculer la somme de 2 nombres à 2 chiffres sans retenue.
Planchettes : Parcours A p. 116 – Parcours B p. 117

1 Pour jardiner, Noé doit classer les tuteurs en mettant ensemble chaque tuteur et sa moitié. **Complète** son classement.

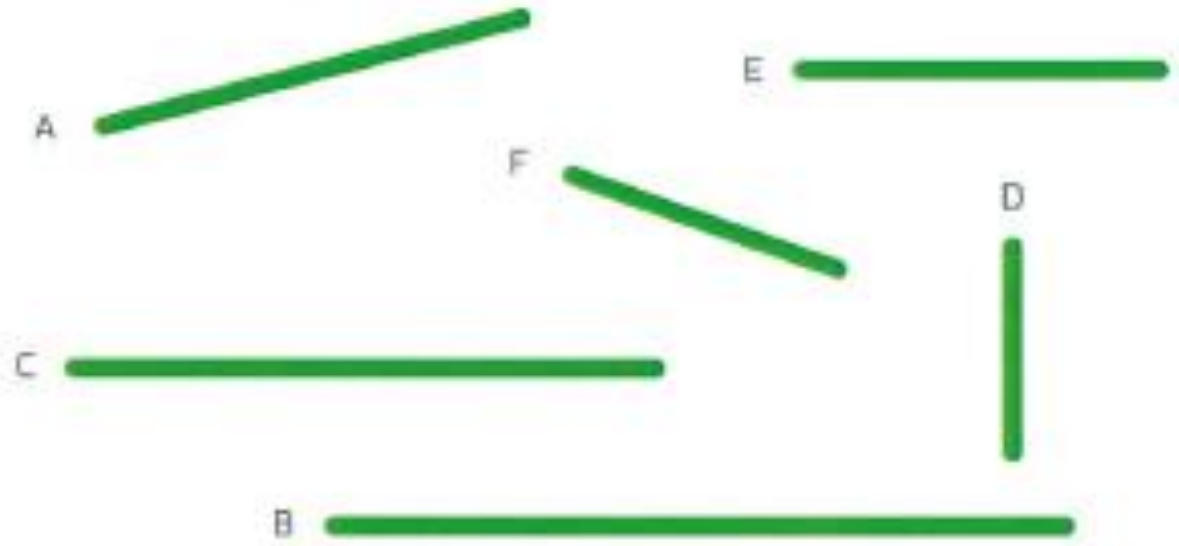

A et sa moitié D B et sa moitié E C et sa moitié F

2 **Mesure** les segments, puis **complète**.

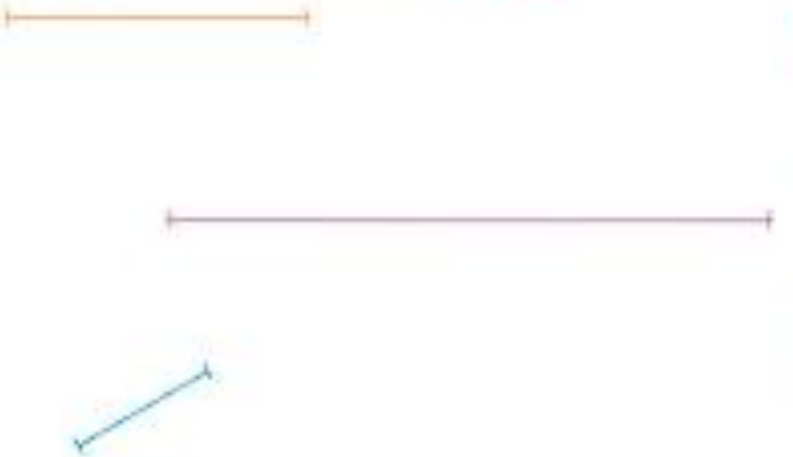

- moitié du segment **violet** = 4 cm
- moitié du segment **orange** = 2 cm
- moitié du segment **bleu** = 1 cm
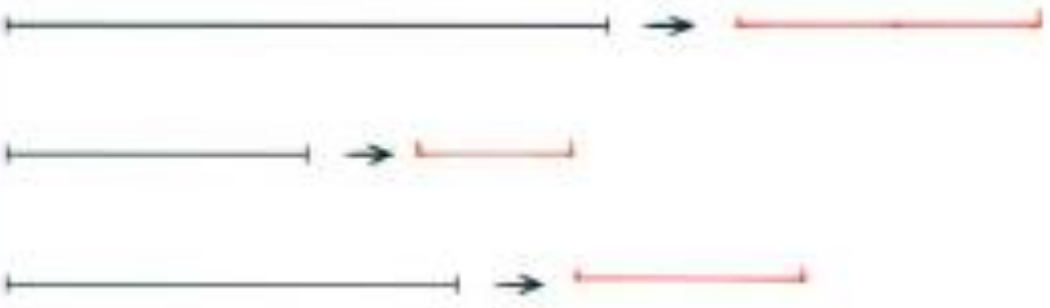
3 **Mesure** les segments. **Trace** un segment de la moitié de chaque longueur.